Recorta los cuadros de abajo y pega las solapas en la página siguiente.

Luminosa



Eléctrica



Químico

Nuclear

Mecánica

Térmica